I'm not robot
reCAPTCHA
Continue

Exercice corrige sur les engrenage

Soit un réducteur de vitesse à roue dentée à arbre creux, composé d’un engrenage parallèle à denture droite. Le réducteur permet la transmission d’un mouvement de rotation à des vitesses différentes entre l’arbre moteur (plein) et l’arbre récepteur (creux). Pignon moteur (1) : Z1 = 20 dents Roue réceptrice (2) : Z2 = 90 dents Vitesse de rotation du moteur : N1=3000 tr/min On demande : Répondre directement sur ce document 1-Compléter le schéma cinématique du réducteur ci-contre en utilisant deux couleurs différentes (liaisons avec le carter et liaison entre les deux roues dentées)2-Remplir le tableau ci-dessous en détaillant les calculs (colonne « Calculs ») et en donnant la réponse (colonne « Réponses »). Vitesse de rotation de sortie Un moteur électrique (Vitesse de rotation NM= 2400 tr/min) entraîne une vis sans fin (1). Le mouvement de rotation de la vis sans fin (1) est transmis à l’arbre de sortie de la roue dentée (7) par la chaîne cinématique composée de 2 sous-ensembles A et B. qurb e ilahi book by mufti akmal pdf

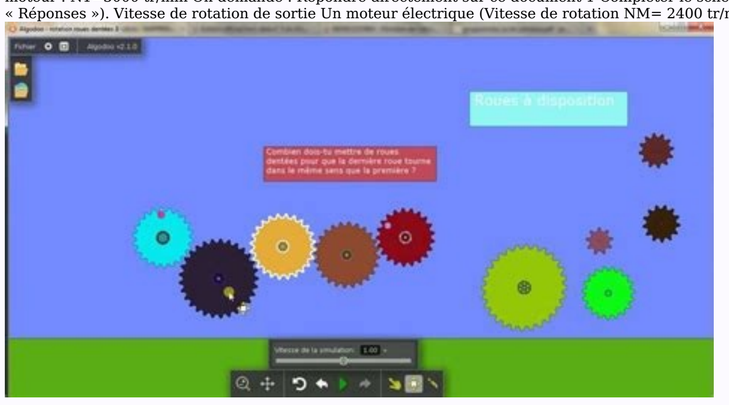

A : Un engrenage roue et vis sans fin (1) et (2) B : Un train d’engrenages parallèles (3), (4), (5), (6), (7) Le schéma cinématique et les caractéristiques des différents éléments de la chaîne cinématique de transmission de mouvement : Objectif : Déterminer la vitesse de rotation de sortie, N7. On demande : Répondre sur feuille Exprimer litéralement puis calculer le rapport de transmission du sous-ensemble A , r 2/1 = (N2/N1) Déterminer le rapport de transmission du sous-ensemble B, r 7/3 = (N7/N3), pour cela : Donner le repère des roues menantes (la roue dentée (4) est à la fois menante et menée) Donner le repère des roues menées Exprimer litéralement le rapport de transmission r 7/3 = (N7/N3) Calculer le rapport de transmission r 7/3 = (N7/N3) La roue intermédiaire (4) a-t-elle une influence sur la valeur du rapport de transmission r7/3 ? Jusitifier. En fonction du nombre de contacts extérieurs du train d’engrenages B, donner le sens de rotation de (7) par rapport à (3) (inverse ou identique) Conclure sur le rôle de la roue intermédiaire (4) Exprimer puis calculer le rapport de transmission global r 7/1 = (N7/N1) en fonction de r 2/1 et de r7/3 La chaîne cinématique de transmission de mouvement composée des sous-ensembles A et B, est-elle un réducteur ou un multiplicateur de vitesse ?

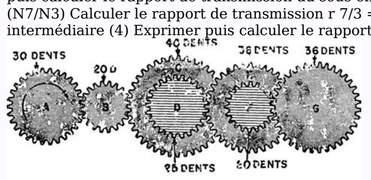

Figure 111

Jusitifier. Exprimer litéralement la vitesse de rotation de l’arbre de sortie N7 en fonction de N1 (=NM) et r7/1 puis calculer N7 en tr/min, en prenant r 7/1 = 1/120 . ibm app connect enterprise v11 Exprimer litéralement la vitesse de rotation angulaire ω7 en fonction de N7 puis calculer ω7 en rad/s. Un moteur électrique (Puissance P = 1500 W, Vitesse de rotation NM= 3500 tr/min) entraîne une vis sans fin (1). Le mouvement de rotation de la vis sans fin (1) est transmis à l’arbre de sortie de la poulie (8) par la chaîne cinématique composée de 3 sous-ensembles A,B et C. A : Un engrenage roue et vis sans fin (1) et (2) B : Un train d’engrenages parallèles (3), (4), (5), (6) C : Un ensemble poulies-courroie (7) et (8) Le schéma cinématique et les caractéristiques des différents éléments de la chaîne cinématique de Objectif : Déterminer la vitesse de rotation de sortie, N8. On demande : Répondre sur feuille Exprimer litéralement puis calculer le rapport de transmission du sous-ensemble A , r 2/1 = (N2/N1) Déterminer le rapport de transmission du sous-ensemble B, r 6/3 = (N6/N3), pour cela : Donner le repère des roues menantes Donner le repère des roues menées Exprimer litéralement le rapport de transmission r 6/3 = (N6/N3) Calculer le rapport de transmission r 6/3 = (N6/N3) Exprimer litéralement puis calculer le rapport de transmission du sous-ensemble C , r 8/7 = (N8/N7) En fonction du nombre de contacts extérieurs du train d’engrenages B, donner le sens de rotation de (8) par rapport à (3) (inverse ou identique) Exprimer puis calculer le rapport de transmission global r 8/1=(N8/N1) en fonction de r 2/1, r6/3 et r 8/7 Exprimer litéralement la vitesse de rotation de l’arbre de sortie N8 en fonction de N1 (=NM) et r8/1 puis calculer N8 en tr/min, en prenant r 8/1 = 1/200 Exprimer litéralement la vitesse de rotation angulaire ω8 en fonction de N8 puis calculer ω8 en rad/s. Exprimer litéralement la vitesse linéaire de la courroie V en fonction de ω8 puis calculer V en m/s. Exprimer litéralement le couple disponible sur l’arbre (8) C8 en fonction de la puissance P et de ω8 puis calculer C8 en N.m. HYPOTHESE : Le rendement de la chaîne cinématique et égal à 1, la Puissance disponible sur l’arbre (8) est donc égale à la puissance du moteur P = 1500 W. Exercice 1 : REDUCTEUR A 2 ETAGES : ENGRENAGES Question 1 : Déterminer le rapport de transmission de ce réducteur à 2 trains d'engrenage = PDF28 fév 2012 · Exemple 1 1 : Engrenages cylindriques simples Question 1 : Indiquer, à l'aide de flèches, le sens de rotation de chacune des roues dentées PDF43 exercices engrenage 43 1 train d'engrenage simple : I Présentation : II Travail demandé : Q1 Indiquer, à l'aide de flèches, le sens de rotation de PDFRéducteur à engrenage Exercice n°1 Train d'engrenage extérieur Roue 1 : R1 : Rayon primitif Z1 :Nombre de dents Pignon 2 : R2 : Rayon primitif PDF9 fév 2012 · Exercice 1 : TRAIN D'ENGRENAGE SIMPLE du train d'engrenages Corrigé TD 19 - Lois entrée-sortie en position et en vitesse PDFLycée Fermat Toulouse - CPGE MPSI/PCSI Florestan MATHURIN Page 1 sur 4 Train d'engrenage simple - Corrigé Q 1 Q 2 Roues menantes Roues menées PDFEngrenages 118 E Presta Exercice 4 Une roue droite à denture droite à 30 dents, un module de 4 mm, un angle de pression de 20° Déterminer le diamètre PDF20 juil 2018 · Transmissions par engrenages – Embrayages – Limiteurs de couple d'exercices corrigés a été ajouté (relatifs aux réducteurs et aux PDFExercices sur le banc d'essais d'engrenages 03 à 09 Corrigés 10 Banc d'essais Tél : 01 64 86 41 00 - Fax : 01 64 46 31 19 www a4 PDFExercice corrige sur les engrenage 35000 Choisir Une Catégorie Le réducteur permet la transmission d'un mouvement de rotation à des vitesses différentes PDFExercice 1 - Roue auto motrice d'un chariot Corrigé page 14 A Présentation un train d'engrenages cylindriques à denture droite (m = 1,5): PDF25 mar 2019 · Exercice engrenage corrigé 4eme Deux bus A et B partent en même temps du terminus à 7h Le bus A part toutes les 35 minutes du terminus PDFCI 12 : Transmission de puissance sans transformation de MVT Exercice Les engrenages r : rapport de transmission (sans unité) Z : nombre de dents PDFExercice 1 Le réducteur représenté schématiquement se compose de trois trains d'engrenages à roues hélicoïdales (Z1=32, Z2=64, Z3=25, Z4=80, Z5=18, Z6=50 PDF9 fév 2012 · LOIS ENTREE-SORTIE DES TRAINS D'ENGRENAGES SIMPLES | Exercice 1: TRAIN D'ENGRENAGE SIMPLE Un train d'engrenage, dans lequel toutes les PDFExercices d'entraînement : les engrenages 1 Observe cet engrenage réalisé avec 2 roues dentées bleues 1 2 Si tu fais tourner la roue 1, dans quel sens PDFQ-3 : Donner la formule liant les vitesses de rotation des deux moteurs et de l'arbre 11 Exercice 3 : Train d'engrenages 0 3 4 2 1 PDFPetit exercice sur les engrenages, pour ne pas tout oublier Corrigé : Il fallait d'abord connaitre le nombre de dents de chacune des roues PDFCorrection du devoir à la maison N°4 Classe de 4A/4B Exercice 1 : (8 Points) Un engrenage est constitué de roues dentées Considérons l'engrenage de la PDFEXERCICES BOITE DE VITESSE / ENGRENAGES Page 1/2 EXERCICE 1 Sur le schéma cinématique ci-dessous, a- Retrouvez le nombre de dents du pignon A PDFCe qui pilote la séance : Dans un engrenage, les roues paires tournent compléter le schéma de l'exercice 3 avant même de réaliser le montage PDFexercice 2 Maîtriser le vocabulaire des engrenages Nom du système : engrenage Le système d'engrenage permet de transmettre un mouvement de rotation PDF5 mar 2020 · Exercice 1: Trains simples Exercice 2: Train épicycloïdal Formule de Willis On se retrouve avec un train d'engrenages simple PDFExercices 06 : Ressorts 6 1 Automne 09 v = ω2 D3 / 2 (0 25 pt) EXERCICE 3b : CALCUL DE LIMITE D'ENDURANCE limite d'endurance non-corrigée PDFTrain à un engrenage : deux roues extérieures et cas d'une roue intérieure Exercice 9 Un engrenage conique à denture droite à un pignon de 18 dents PDF6 août 2019 · — Couple d'engrenages à denture corrigée en hauteur et en épaisseur (rapport 14 x 70) de la roue et du pignon pour un couple déterminé L'angle PDFEXERCICE Soit le schéma d'une transmission de mouvement par poulies Un engrenage est un mécanisme élémentaire composé de deux roues dentées mobiles PDFEXERCICE 01: Cotation fonctionnelle EXERCICE 04: CALCUL DE TRANSMISSION Tambour o Etage 2: engrenage cylindrique à denture droite (19 – 23) PDFUne machine fabrique en très grande série des engrenages Soit X la variable aléatoire qui, Corrigés Exercice 1 Test bilatéral relatif à une moyenne PDFEXERCICE 2 (corrigé): La figure 1 représente un réducteur, il est formé par un étage d'engrenage à dentures droite et guidée en rotation par des PDFT D Cinématique - Corrigé I - Mouvements Exercice n°2 (d'après concours Centrale - Supelec 2002) L'engrenage conique apporte une réduction PDFConsulter le dossier ressources « banc d'essai engrenages » 9 – compléter le schéma d'engrenage ci-dessous permettant de réaliser l'exercice précédent PDF1 avr 2014 · Le signe moins indique un sens de rotation différent pour la roue et le pignon (significatif pour un engrenage à contact extérieur) 1 5 3 2 PDFExercice n°1 1) Mettre les fractions suivantes sous Exercice n°2 a) Sur le dessin de l'engrenage, indiquer le sens de rotation de la grande roue PDF10 mar 2015 · Exercice : Utilise toutes les roues dentées pour réaliser une multiplication de 16 fois sur seulement deux axes de la platine Complète le PDFExercice 1 (6,5 points) Deux usines produisent des engrenages pour les boîtes de vitesses de voitures Certains engrenages sont Corrigé de l'exercice 4 PDFEngrenages cylindriques à denture hélicoïdale 54 VII Engrenages coniques 55 VIII Engrenage gauche : le système roue-vis sans fin PDFUne feuille d'exercice avec le schéma d'un pédalier et la roue arrière d'un vélo Corrigé Oui Association de création pédagogique Euro Cordiale PDFExercice : 2 (10 pts) • Compléter le type des transmissions de mouvement par les termes suivants (2 pts) Transmission par chaîne - Engrenage conique PDFCorrigé devoir commun seconde 2016(sujet A) Exercice 1 que sur les 616 engrenages produits par l'usine B, 16 sont défectueux PDFpuissance nécessaire au levage est fournie par un moteur électrique et elle est transmise à la noix 5 par l'intermédiaire d'un réducteur à engrenages Le moteur PDFIl existe un système qui transmet cette énergie à la roue arrière: le système de transmission 1 Le vélo: transmission par chaine Exercice 2: Coloriez (avec PDFOn s'intéresse à l'engrenage ci-contre, composé d'un pignon et d'un plateau : a Je compte le nombre de dents des deux éléments de l'engrenage puis je PDFExercice corrigé engrenage Soit un réducteur de vitesse à roue dentée à arbre creux, composé d'un engrenage parallèle à denture droite PDFCorrigés en TD : Balançoire, freinage, basculements, excitation du pendule, patineur, engrenages Point matériel Exercice 1 : Balançoire à bascule PDFEXERCICE : Une usine produit des machines Exercice 1 (corrigé) puis par les calculs, le temps au bout duquel 30 des engrenages sont défaillants PDFActivité d'apprentissage : corrigé a) Sur le panneau de montage, assemblez un système d'engrenage à l'aide des roues dentées et des clous PDFExercice 8 : Train de 2 engrenages, comprenant un engrenage conique (roues 1 et 2) Donner l'expression littérale du PDFengrenages est élevé (pertes de l'ordre du pourcent), ce qui permet de négliger où apparaît l'indice d'effet d'élaboration corrigé β (1) b,corr =1+ PDFExercice 1 : Entraînement par chaîne Pour tout l'exercice, on ne considère que la roue dentée 8, Corrigé TD Transmission de puissance Exercice 1 PDFsoit par friction, courroies, chaines ou bien par les engrenages un 2e année MP, PSI, PT: Cours et exercices corrigés: Dunod, 2010 PDFExercices utilisant la dérivée de la position (mouvement simple du point) - ex9 19 - utile dans les trains d'engrenages PDF16 avr 2022 · Exercice 1 : EOLIENNE BIPALE Question 3 : Corriger les 14 erreurs suivantes : Exercice 6 : LE BIONIC BAR DU PAQUEBOT HARMONY PDFCorrigés en TD : Balançoire, freinage, basculements, excitation du pendule, patineur, engrenages Point matériel Exercice 1 : Balançoire à bascule PDFMécanismes et transmission de mouvements – TD n 5 - Corrigé sous forme d'exercice d'application faisant appel au calcul : n°3 et 4 ; PDFengrenages 3 Solutions technologiques FT1 2 Acquérir l'arrêt du véhicule Fonctions techniques FT 1 3 3 1 Utiliser un système vis- écrou FT 1 3 3 2 PDFpas à le faire, car elle contribuera à corriger une éventuelle erreur, Exercices résolus, exercices non résolus Réducteur à engrenages (4) PDFMot clés : Fraction, engrenage, braquet, multiple Mon vieux vélo possède 6 vitesses Le pé- dalier possède en effet 2 plateaux et la roue arrière 3 pignons PDFAnnexe 22 : Exercice d'identification des machines simples Un engrenage est un système de roues dentées qui interagissent : les dents de chaque roue PDFExemple 3 : engrenages • Un correcteur comprend un engrenage de 2 roues, une de 15 dents et une autre de 35 dents Quel nombre entier de tours doit PDFLa batterie chargée fournit l'énergie nécessaire au moteur électrique Ce dernier propulse la voiture en agissant sur les roues par l'intermédiaire d'engrenages PDFd'un réducteur à deux étages (poulies courroie et engrenages) • d'une table coulissante (l'effecteur du système) III 1 Dessin d'ensemble : PDFFigure 36 – Engrenage extérieur soumis à une forte interférence en cas de denture normale : élimination par denture corrigée sans variation d'entraxe PDFUn engrenage plus grand à l'avant (le plateau) qu'à l'arrière (le totale corrige le positionnement du système cycliste-vélo et le ramène à une PDFExercice 4 Corrigé Le candidat doit traiter les quatre exercices d'engrenages avec un rapport entre rouages proche d'une valeur souhaitée PDFet des études antérieures effectuées tant dans le domaine des engrenages en matériaux composites et plastiques que de l'étude de modes d'endommagement des PDFpréparer des séances de laboratoire sur les leviers, poulies, engrenages, plan incliné, Quatrième séance : Les engrenages d'un exercice physique PDFd'un tracteur Fendt 930 dans le cas où il serait équipé d'un réducteur à engrenages On suppose unitaire le rapport entre l'arbre secondaire et les roues PDFOrdre de commande Capteur angulaire Energie d'entrée Moteur électrique Réducteur roue/vis Embrayage Réducteur à engrenages parallèles Manivelle, PDFElles ont un très bon rendement (≈ 98 , comparables aux engrenages) 3 2 1/ Engrenages droits a denture droite Exercices d'entraînement: PDFExercice 2 : L'alliage fer – carbone forme une combinaison chimiquement définie de 6 67 de carbone Chercher la formule chimique correspondante sachant que les PDFengrenages III Nécessité d'une boite de vitesse : Pour adapter la vitesse de rotation et le couple (effort tournant) d'un moteur à un récepteur, PDFEngrenage : Ensemble de deux roues dentées Pignon : f) Engrenage conique à denture droite Remarque : Exercice 3 Roue motrice de chariot électrique PDFExercices corrigés : 1 1 Guidage en rotation 18 1 2 Joint de OLDHAM 19 1 3 Actionneur de trieur à grains 19 1 4 Échelle contre un arbre PDFL'objectif de cet exercice est de déterminer la loi entrée-sortie Cm = f(M) en vue Rendement de chaque train d'engrenages du réducteur : n1 = n/2 = 0,92 PDF Transmission par engrenage Corrigé des exercices Exercice 1 Nombre de dents : R = 0,25 = Z pignon / Z roue d'où Z pignon = 0,25 80 Zpignon = 20 dents Module : p = m π, or ici p = 2 Variateur SECVT à sélection continue ou séquentielle - Corrigé Q 1 O y0 r A A B x0 r A C Arbre moteur Arbre 1 Arbre 2 Arbre flasque mobile Q 2 On applique la formule r Rouesmenées Rouesmenantes n(1) e/Rg s/Rg Π Π = =− ω ω sur ce réducteur à train simple On a une mise en série de trois engrenages à contact extérieur II)Système à engrenages multiples : Soit le système suivant (la petite roue possède 10 dents et la grande 40) 6- Quelle va être le rapport de réduction du système ? Les rapports de réduction se multiplient Les deux systèmes sont constitués des mêmes roues dentées, ils possèdent donc le même rapport de réduction Exercice CFE La CFE (Compagnie Française d'Engrenages) est un sous-traitant du secteur de l'automobile et de l'industrie du poids lourd Elle fabrique des engrenages simples, droits ou coniques, ainsi que des sous-ensembles terminés comme des boîtiers de transmission Corrigé TD 20 - Lois entrée-sortie en position et en vitesse CPGE 1ère année Sciences Industrielles pour l'Ingénieur Page 4/9 05/03/2012 Exercice 5 : TREUIL-PALAN DE PONT ROULANT Question 1 : Compléter le repère des pièces dans le tableau décrivant les 2 trains épicycloïdaux (droite et gauche) Exercice 1 Test bilatéral relatif à une moyenne Une machine fabrique en très grande série des engrenages Soit X la variable aléatoire qui, à chaque engrenage choisi au hasard dans la production d'une journée, associe son diamètre, exprimé en millimètres On admet que X suit une loi normale de paramètres m et σ = 0,018 4 3 Exercice corrigé 83 CHAPITRE 5 • BOÎTES DE VITESSES ÉNONCÉ DES PRINCIPES 87 5 1 Fonction 87 5 2 Conception d'une boîte de vitesses d'automobile 88 5 3 Étude des mécanismes propres aux boîtes de vitesses à trains ordinaires 96 À savoir 102 9782100529179 book Page V Vendredi, 20 juillet 2018 12:15 12 Les engrenages peuvent être cylindriques ou coniques Ceux dont l'axe coïncide avec un axe fixe dans l'espace s'appellent ''planètesplanètes'' et ceux qui tournent avec leur axe autour d'un autre s'appellent '' généralement maintenus par un satellites'' satellites le avec un minimum d'éléments pour des transmissions à faible puissance Corrigé TD 19 - Lois entrée-sortie en position et en vitesse CPGE 1ère année Sciences Industrielles pour l'Ingénieur Page 2/4 09/02/2012 Pour respecter le profil de vitesse imposé, il faut : 0,35 60 33,4 / min tambour 20,1 Ntr · == ·n· Question 5 : Conclure quant au choix du concepteur d'utiliser ce réducteur Page 2 PDFprof.com Search Engine Report CopyRight Search conjugaison japonaise tableaucours japonais gratuit pdfverbes japonais pdfle japonais tout de suite pdf(pdf) vocabulaire japonaisdictionnaire japonais pdf40 leçons pour parler japonais pdfle japonais pour les nuls pdf gratuit fiche vocabulaire japonais pdfverbes japonais pdfle japonais tout de suite pdfvocabulaire japonais courantvocabulaire japonais par themeconjugaison japonaise pdf100 fiches de vocabulaire japonais pdfverbes japonais tableau Politique de confidentialité -Privacy policy You're Reading a Free Preview Pages 6 to 13 are not shown in this preview.

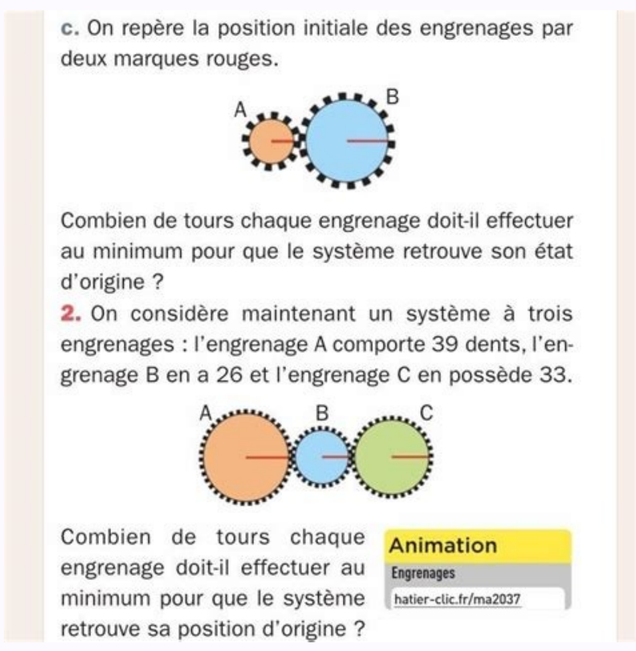
LES ENGRENAGES : EXERCICES