I'm not robot
reCAPTCHA
Continue

Theoreme de millman exercice corrigé pdf

Exercices corrigés thévenin norton millman superposition pdf. Théorème de millman pdf. Théorème de millman exercice corrigé pdf.

Le théorème de Millman fait partie des « outils mathématiques » de base de l’électronicien, c’est pourquoi je vous propose de le découvrir aujourd’hui. Et comme il est, en quelque sorte, la synthèse de la loi des branches et de la loi des nœuds (vu à l’occasion des lois de Kirchhoff), il sera donc nécessaire ici de connaître toutes ces lois avant tout (comme la loi d’ohm, d’ailleurs).Nous verrons également plusieurs exemples d’applications pratiques (mélangeur audio, circuits à ampli op, convertisseur de tension, filtre RC), au travers d’exercices corrigés. bcl2fastq sample sheet format Ainsi, vous pourrez donc, à la fois, apprendre à vous exercer à l’application du théorème de Millman, tout en découvrant des montages électroniques vraiment utiles, et concrets.N’étant ni enseignant, ni ingénieur, ni même expert en ce domaine, il se peut que des coquilles se soient glissées dans le présent article. Si c’est le cas, n’hésitez pas à m’en faire part en zone commentaire, afin que j’apporte au plus vite les corrections nécessaires ! Merci à vous, par avance !L’énoncé « général » du théorème de Millman dit la chose suivante : dans un circuit électrique, composé de multiples branches mises en parallèle, et constituées pour chacune d’elle d’une source de tension en série avec un élément linéaire, alors la tension en point milieu de ce circuit sera égale à la somme des tensions divisées par l’impédance de chacune des branches, le tout divisé par la somme des admittances ».Avec :L’impédance, pour ceux qui en veulent une définition simple, qui est la résistance qu’oppose un élément, au passage d’un courant alternatifL’admittance qui est simplement l’inverse de l’impédance (c’est-à-dire : admittance = 1 / impédance)Les éléments linéaires qui peuvent être, par exemple, des résistances, condensateurs, ou inductances (bobines)À noter que ce théorème reste valable aussi bien en courant continu, qu’en courant alternatif.Bon… dit comme ça, tout ceci n’est pas forcément évident à comprendre ! C’est pourquoi, je vous propose un schéma illustratif, avec la « formule aboutie de Millman », si je puis dire ☺Ainsi, le théorème de Millman permet de déterminer la valeur de la tension au point où se rejoignent toutes les branches, grâce à une formule « simple », et pratique.Comme nous le verrons par la suite, les applications du théorème de Millman sont multiples. Et nous verrons comment nous en servir, notamment au travers de montages pratiques et utiles, tels qu’un :Convertisseur de tensionMélangeur de signaux (moyenneur de tensions)Filtre passifAmpli inverseurEt bien entendu, les applications possibles de ce théorème ne se limitent pas à cela ! En bref, c’est vraiment une formule mathématique à connaître, tout autant que le cadre de son application d’ailleurs (éléments linéaires uniquement, pour rappel).Prérequis : connaître la loi d’ohm, la loi des mailles, et la loi des nœuds.Histoire de ne pas balancer une telle formule sans démonstration, voici donc une manière de démontrer le théorème de Millman simplement, avec les lois de Kirchhoff (et je dis bien « une » manière, car il y en aurait bien évidemment d’autres !).Pour ce faire, prenons comme support le montage suivant :1) Exprimons VR1 en fonction de V1 et de VAB, VR2 en fonction de V2 et de VAB, et VR3 en fonction de V3 et de VAB (en utilisant la loi des branches)VAB = V1 + (-VR1) (loi des branches, avec VR1 « à l’envers »)d’où VR1 = V1 – VAB ==> équation 1aVAB = V2 + (-VR2) (loi des branches, avec VR2 « à l’envers »)d’où VR2 = V2 – VAB ==> équation 1bVAB = V3 + (-VR3) (loi des branches, avec VR3 « à l’envers »)d’où VR3 = V3 – VAB ==> équation 1c2) Exprimons i1 en fonction de R1 et VR1, i2 en fonction de R2 et VR2, i3 en fonction de R3 et VR3 (en appliquant la loi d’ohm)U = R * I (loi d’ohm)d’où VR1 = R1 * i1d’où i1 = VR1 / R1 ==> équation 2aU = R * I (loi d’ohm)d’où VR2 = R2 * i2d’où i2 = VR2 / R2 ==> équation 2bU = R * I (loi d’ohm)d’où VR3 = R3 * i3d’où i3 = VR3 / R3 ==> équation 2c3) Remplaçons les tensions VR1, VR2, et VR3 des trois équations précédentes (point 2), par les valeurs trouvées au début (point 1)i1 = VR1 / R1 (équation 2a)d’où, après remplacement de VR1 par l’équation 1a :i1 = (V1 – VAB) / R1 ==> équation 3ai2 = VR2 / R2 (équation 2b)d’où, après remplacement de VR2 par l’équation 1b :i2 = (V2 – VAB) / R2 ==> équation 3bi3 = VR3 / R3 (équation 2c)d’où, après remplacement de VR3 par l’équation 1c :i3 = (V3 – VAB) / R3 ==> équation 3c4) Appliquons la loi des nœuds au point ALa somme des courants entrants = la somme des courants sortants (loi des nœuds)d’où 0 = i1 + i2 + i3 ==> équation 45) Remplaçons les courants i1, i2, et i3 de l’équation précédente (point 4), par leurs expressions respectives, trouvées au point 30 = i1 + i2 + i3 (équation 4)d’où, après remplacement de i1/i2/i3 par les équations 3a/3b/3c :`0 = frac(V1 – V_(AB))(R1) + frac(V2 – V_(AB))(R2) + frac(V3 – V_(AB))(R3)`d’où `0 = frac(V1)(R1) – frac(V_(AB))(R1) + frac(V2)(R2) – frac(V_(AB))(R2) + frac(V3)(R3) – frac(V_(AB))(R3)`d’où `frac(V1)(R1) + frac(V2)(R2) + frac(V3)(R3) = frac(V_(AB))(R1) + frac(V_(AB))(R2) + frac(V_(AB))(R3)`d’où `frac(V1)(R1) + frac(V2)(R2) + frac(V3)(R3) = V_(AB) * (frac(1)(R1) + frac(1)(R2) + frac(1)(R3))`d’où `class{cmjx-highlight} { V_(AB) = frac(frac(V1)(R1) + frac(V2)(R2) + frac(V3)(R3))(frac(1)(R1) + frac(1)(R2) + frac(1)(R3)) }`Voilà qui nous permet de retomber sur la formule présentée en tout début d’article (ici exprimée pour un circuit à 3 branches, mais généralisable pour tout circuit à « n » branches).Maintenant que nous avons vu et « démontré » le théorème de Millman, passons à son utilisation pratique ! Et pour commencer, je vous propose un schéma aussi simple que le précédent (quasi identique, à l’exception qu’ici, les 3 résistances auront une valeur identique). Bien entendu, le but sera ici de montrer l’utilité du théorème de Millman au travers d’un exemple concret, de montage électronique !Pour ce faire, voici le schéma sur lequel je vous propose d’effectuer un premier exercice :But de l’exercice : déterminer Vs en fonction de V1, V2, et V31) Exprimons le théorème de Millman au point « A »`V_(S) = frac(frac(V1)(R) + frac(V2)(R) + frac(V3)(R))(frac(1)(R) + frac(1)(R) + frac(1)(R))`2) Simplifions l’équation précédente, en multipliant par « R » au numérateur, ainsi qu’au dénominateurd’où `V_(S) = frac(R)(R) * frac(frac(V1)(R) + frac(V2)(R) + frac(V3)(R))(frac(1)(R) + frac(1)(R) + frac(1)(R))`d’où `V_(S) = frac(frac(R * V1)(R) + frac(R * V2)(R) + frac(R * V3)(R))(frac(R)(R) + frac(R)(R) + frac(R)(R))`d’où `V_(S) = frac(V1 + V2 + V3)(1 + 1 + 1)`d’où `class{cmjx-highlight} { V_(S) = frac(V1 + V2 + V3)(3) }`Ainsi, comme vous pouvez le constater, ce circuit permet tout simplement de faire la moyenne entre toutes les tensions, présentes en entrée.
C’est donc un montage « moyenneur de tension ».Un exemple d’utilisation typique de ce montage est le « mélangeur audio passif ». En effet, celui-ci permet de mélanger plusieurs sources musicales, et ce, de manière entièrement passive (puisqu’il n’y a que des résistances, mises en œuvre). Bien sûr, il faudra considérer comme « déconnectées » les voies qui ne seront pas utilisées.Pour illustrer cela, voici un exemple de mélangeur audio passif, permettant de mixer jusqu’à 4 sources en stéréo :Et comme vu précédemment sur 3 branches, on pourrait ici appliquer le théorème de Millman en A (pour la voie de droite), ainsi qu’en B (pour la voie de gauche), en prenant les 4 branches possibles à chaque fois.Au passage, les avantages d’un tel circuit sont nombreux, car : c’est un montage peu cher et rapide à réaliser (seulement quelques résistances, et quelques connecteurs jack stéréo), qui ne consomme aucun courant (puisque passif), et dont la bande passante est quasi illimitée (dans le spectre des fréquences audibles, aucun souci !). Donc, qu’espérer de mieux ? ☺Juste histoire de vous montrer un cas particulier, voici un montage quasi identique au précédent, en apparence, mais avec une résistance supplémentaire, mise directement à la masse (pour qui, on pourrait dire, qu’elle est « sans source de tension »).D’après-vous ici, avant d’utiliser le théorème de Millman au point A :Faut-il prendre en compte cette résistance R4 ?Et si oui, comment qualifier le fait qu’elle « n’ait pas » de source de tension ?But de l’exercice : déterminer Vs en fonction de V1, V2, et V3, puis comparer au résultat de l’exercice précédent (pour voir l’impact de la résistance R4, sur la tension de sortie)Comme vous vous en doutez, on peut bien évidemment appliquer le théorème de Millman ici, en prenant en compte cette résistance R4 (sinon, je n’aurais pas pris la peine d’en parler si particulièrement !). Mais comment la considérer, du fait qu’elle n’est pas reliée à une source de tension, contrairement aux autres ?En fait, il suffit de considérer que la masse branchée au bas de la résistance R4 est équivalente à une source de tension V4, dont la valeur serait égale à 0 volt.

$$V_N = \frac{\sum_{k=1}^{N} V_k.G_k}{\sum_{k=1}^{N} G_k} = \frac{\sum_{k=1}^{N} \frac{V_k}{R_k}}{\sum_{k=1}^{N} \frac{1}{R_k}}$$

Voici d’ailleurs une façon de représenter cela :Et là, on a bien 4 résistances (R, R, R, et R4) et 4 sources de tension (E1, E2, E3, et E4). 14587290038.pdf On peut donc appliquer le théorème de Millman ici. Et tout simplement, la formule sera égale à : `V_(S) = frac(frac(V1)(R) + frac(V2)(R) + frac(V3)(R) + frac(V4)(R4))(frac(1)(R) + frac(1)(R)+ frac(1)(R) + frac(1)(R4))`Et comme V4 = 0, comme vu précédemment, on peut écrire que : `V_(S) = frac(frac(V1)(R) + frac(V2)(R) + frac(V3)(R) + frac(0)(R4))(frac(1)(R) + frac(1)(R)+ frac(1)(R) + frac(1)(R4))`Si on multiplie ensuite au numérateur et au dénominateur par la valeur « R », on obtient alors : `V_(S) = frac(R)(R) * frac(frac(V1)(R) + frac(V2)(R) + frac(V3)(R) + frac(0)(R4))(frac(1)(R) + frac(1)(R)+ frac(1)(R) + frac(1)(R4))` d’où `V_(S) = frac(V1 + V2 + V3 + 0)(1 + 1 + 1 + frac(R)(R4))`Donc, au final : `class{cmjx-highlight} { V_(S) = frac(V1 + V2 + V3)(3 + frac(R)(R4)) }`Donc on voit que cette 4ème résistance impacte bien la tension en sortie, et que le théorème de Millman était applicable en prenant toutes les résistances présentes, même en l’absence de source de tension apparente !Tout ça pour vous montrer qu’il ne faut pas oublier de prendre en considération tous les composants reliés à un circuit électronique, quand bien même ceux-ci sembleraient être « sans incidence majeure » sur son comportement ! Alors, n’oubliez jamais de bien prendre en compte tous les éléments interreliés, lorsque vous appliquez vos lois, ou théorèmes, lorsqu’il le faut ☺À présent, nous allons voir encore une autre variante du montage précédent. Ici, non seulement une résistance est à la masse, mais une autre est mise au « +5V ». Et pour corser le tout, on va considérer que la tension V1 peut aller en territoire négatif ☺Au passage, vous comprendrez pourquoi un tel montage est vraiment utile et pratique en électronique, à la fin ! Pour l’instant, considérons simplement le montage suivant :But de l’exercice : appliquer le théorème de Millman au circuit présenté ci-dessus, afin de déterminer l’équation mathématique Vs en fonction de Ve ; et donner les valeurs de Vs pour Ve = -15V et Ve = +15V.Pour commencer, voici ce que nous pouvons écrire ici :Étant donné que la résistance R2 est reliée au +5V, on peut dire que c’est comme si elle était reliée à une source de tension V2, égale à 5 voltsEt étant donné que la résistance R3 est reliée au 0V, on peut dire que c’est comme si elle était reliée à une source de tension V3, égale à 0 voltEn effet :Du coup, on peut écrire l’équation suivante, en appliquant le théorème de Millman en sortie : `V_(S) = frac(frac(Ve)(R1) + frac(V2)(R2) + frac(V3)(R3))(frac(1)(R1) + frac(1)(R2) + frac(1)(R3))`Avec V2 = 5 volts, et V3 = 0 volt, comme vu précédemment. Du coup, l’expression écrite ci-dessus devient :`V_(S) = frac(frac(Ve)(R1) + frac(5)(R2) + frac(0)(R3))(frac(1)(R1) + frac(1)(R2) + frac(1)(R3))` d’où `class{cmjx-highlight} { V_(S) = frac(frac(Ve)(R1) + frac(5)(R2))(frac(1)(R1) + frac(1)(R2) + frac(1)(R3)) }`À partir de là, nous pouvons déterminer une expression du type « Vs = a * Ve + b ».

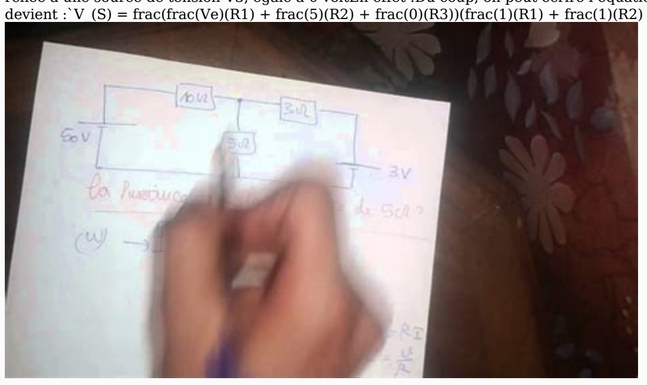

Pour cela, il suffit de reprendre l’équation précédente, et de scinder le numérateur en deux parties : `V_(S) = frac(frac(Ve)(R1))(frac(1)(R1) + frac(1)(R2) + frac(1)(R3)) + frac(frac(5)(R2))(frac(1)(R1) + frac(1)(R2) + frac(1)(R3))` d’où ` V_(S) = frac(R1)(R1) * frac(frac(Ve)(R1))(frac(1)(R1) + frac(1)(R2) + frac(1)(R3)) + frac(R2)(R2) * frac(frac(5)(R2))(frac(1)(R1) + frac(1)(R2) + frac(1)(R3))` d’où ` V_(S) = frac(Ve)(1 + frac(R1)(R2) + frac(R1)(R3)) + frac(5)(1 + frac(R2)(R1) + frac(R2)(R3))` d’où ` class{cmjx-highlight} { V_(S) = Ve * (frac(1)(1 + frac(R1)(R2) + frac(R1)(R3))) + (frac(5)(1 + frac(R2)(R1) + frac(R2)(R3))) }`On trouve bien ici une expression exprimée sous la forme :` V_(S) = Ve * a + b ` , avec ` class{cmjx-highlight} { a = frac(1)(1 + frac(R1)(R2) + frac(R1)(R3)) }` et `class{cmjx-highlight} {b = frac(5)(1 + frac(R2)(R1) + frac(R2)(R3)) }`Avec les valeurs de résistances présentées plus haut (R1 = 30k, R2 = 10k, et R3 = 15 k), on peut ainsi calculer les valeurs numériques de a et b :Valeur de `a = frac(1)(1 + 30000 / 10000 + 30000 / 15000) = frac(1)(1 + 3 + 2) = frac(1)(6)` → d’où `class{cmjx-highlight} { a = 0,1666667 }` Valeur de `b = frac(5)(1 + 10000 / 30000 + 10000 / 15000) = frac(5)(1 + 0,33333 + 0,66667) = frac(5)(2)` → d’où `class{cmjx-highlight} { b = 2,5 }` Au final, on obtient l’équation numérique suivante, exprimant Vs en fonction de Ve : d’où ` class{cmjx-highlight} { V_(S) = 0,1666667 * Ve + 2,5 }`Enfin, pour répondre aux questions posées en début d’exercice, à savoir :Quelle est la valeur de Vs quand Ve = -15V ? → Vs = 0,1666667 * (-15) + 2,5 → d’où Vs = 0 voltQuelle est la valeur de Vs quand Ve = +15V ? → Vs = 0,1666667 * (15) + 2,5 → d’où Vs = 5 voltsDonc, quand Ve = -15V alors Ve = 0 volts, et quand Ve = +15V alors Ve = 5 volts. On n’a donc bien une conversion de tension qui s’opère ici, « transformant » bien la tension d’entrée -15/+15 volts en 0/5 volts.Et comme je vous disais en intro de cet exercice, ce montage est vraiment utile, et intéressant. C’est d’ailleurs un circuit très apprécié en électronique, lorsqu’on doit par exemple mesurer une tension aussi bien positive que négative, à l’aide d’un convertisseur analogique-numérique (ADC) de microcontrôleur. En effet, ce dernier n’acceptant que des tensions positives, il faut bien « décaler » et « proportionner » cette tension d’entrée, afin que celle-ci se retrouve dans la plage de mesure du µC. ramazan kurtoğlu kitapları pdf indir D’où l’intérêt d’un tel montage !Voyons à présent un autre style de montage ! Ici, je vous propose un schéma intégrant un ampli op, tout ce qu’il y a de plus basique !Mais rassurez-vous, car il n’y a pas de connaissances particulières à avoir sur cet AOP, pour appliquer le théorème de Millman.

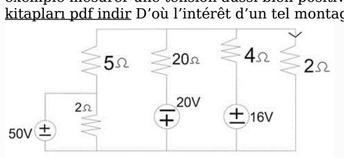

Et ce, malgré l’aspect potentiellement complexe de ce montage, si vous débutez en électronique :Contrairement aux fois précédentes, nous n’allons pas appliquer le théorème de Millman en sortie, mais plutôt au point A. C’est d’ailleurs un bon exercice pour vous montrer que ce théorème peut être appliqué « n’importe où ». En fait, seul compte ce qu’on recherche exactement à déterminer, afin de déterminer en quel point il peut être utile et valide d’appliquer Millman.But de l’exercice (partie 1/2) : appliquer le théorème de Millman au point AAvant d’aller plus loin, il y a 2 ou 3 choses à dire, à propos du schéma ci-dessus :Le point A est relié à l’entrée « – » de l’ampli op ; la tension au point A est donc égale à cette entrée, notée V –La tension Ve est fixe ; elle vaut +5VEt, aussi surprenant que cela puisse paraître, il n’est pas nécessaire de s’y connaître en AOP pour connaître la tension de sortie ! (moyennant une donnée supplémentaire, que je vous « imposerai », par la suite)Si on applique le théorème de Millman au point A, on trouve l’équation suivante : ` class{cmjx-highlight} { V^(−) = frac(frac(Ve)(R1) + frac(Vs)(R2))(frac(1)(R1) + frac(1)(R2)) }`Comme vous l’aurez remarqué, je n’ai pas pris en compte la « branche » qui part de A en direction de V–. Et c’est parfaitement normal ! Car comme indiqué sur le schéma, le courant entrant dans cette entrée V– est nul. Donc, il faut ne pas considérer cette branche, et tout simplement faire comme si elle n’existait pas. Et donc, l’exclure lors de l’écriture de « l’équation de Millman », au point A.But de l’exercice (partie 2/2) : calculer la valeur de Vs, lorsque V– = V+ (qui est égal à 0 volt)Du fait que nous connaissons toutes les valeurs du circuit (Ve = 5V, V– = 0V, R1 = 1k, et R2 = 2,2k), on peut alors reprendre l’équation trouvée précédemment, et calculer la valeur de Vs. `V^(−) = frac(frac(Ve)(R1) + frac(Vs)(R2))(frac(1)(R1) + frac(1)(R2))` d’où `0 = frac(frac(5)(1000) + frac(Vs)(2200))(frac(1)(1000) + frac(1)(2200))` d’où `0 * (frac(1)(1000) + frac(1)(2200)) = frac(5)(1000) + frac(Vs)(2200)` d’où `0 = frac(5)(1000) + frac(Vs)(2200) ` d’où ` frac(Vs)(2200) = – frac(5)(1000)` d’où ` Vs = – frac(5 * 2200)(1000)` d’où ` class{cmjx-highlight} { Vs = -11 }`Ainsi, on constate que cet amplificateur opérationnel permet d’obtenir du -11V en sortie Vs, lorsqu’on applique une tension de +5V en entrée. C’est donc un « ampli inverseur ».Du reste, je ne m’étendrai pas plus sur l’amplificateur opérationnel employé ici, car il n’était là que pour illustrer l’utilisation du théorème de Millman. Mais cette fois-ci, « sans » sources de tensions apparentes. Et qui plus est, en courant alternatif !Pour ce faire, prenons en support ce filtre RC du deuxième ordre :But de l’exercice : appliquer le théorème de Millman au point A ainsi que la formule du pont diviseur de tension en Vs ; puis déterminer la fonction de transfert de ce filtre (Vs/Ve, donc)Avant tout ici, comme nous allons travailler avec un signal sinusoïdal en entrée, il va donc falloir parler « d’impédance » des éléments. Et pour rappel :L’impédance d’une résistance R vaut RL’impédance d’un condensateur C vaut 1 / jCw (avec j « l’unité complexe », et w la pulsation du signal d’entrée, égale à 2 * Pi * f ; avec f = fréquence du signal d’entrée)Alors, pour appliquer Millman au point A, il faut considérer les 3 branches reliées à lui, à savoir :La branche à gauche du point A (avec sa résistance R en chemin, et Ve comme source de tension de cette branche)La branche descendant au bas du point A (avec le condensateur C en chemin, et relié à la masse, soit 0V, comme source de tension de cette branche)Et la branche à droite du point A (avec la résistance R en chemin, et Vs comme source de tension de cette branche)Selon le théorème de Millman, nous pouvons donc écrire cette équation suivante, à partir des 3 branches ci-dessus : `V_(A) = frac(frac(Ve)(Z_(R)) + frac(0)(Z_(C)) + frac(Vs)(Z_(R)))(frac(1)(Z_(R)) + frac(1)(Z_(C)) + frac(1)(Z_(R)))`Avec ZR l’impédance des résistances et ZC l’impédance du condensateur. Nota : pour être parfaitement rigoureux, il faudrait noter toutes les valeurs Va, Ve, et Vs en notation complexe (c’est à dire de manière « soulignée », comme fait de manière usuelle, en physique).On peut à présent remplacer les impédances par leurs « valeurs », c’est à dire : ZR par R, et ZC par 1 / jCw. d’où `V_(A) = frac(frac(Ve)(R) + 0 * jC\omega + frac(Vs)(R))(frac(1)(R) + jC\omega + frac(1)( R))`Remarque : comme l’impédance d’un condensateur Zc vaut 1 / jCw, et que dans Millman on se sert de 1 / Zc, il faut donc bien comprendre que 1 / Zc = 1 / 1 / jCw, d’où 1 / Zc = jCw.d’où `V_(A) = frac(R)(R) * frac(frac(Ve)(R) + frac(Vs)(R))(2 * frac(1)(R) + jC\omega`d’où ` class{cmjx-highlight} { V_(A) = frac(Ve + Vs)(2 + jRC\omega }`Nous obtenons ainsi une équation donnant Va en fonction de Ve et Vs. Mais comme nous souhaitons au final une formule exprimant Vs en fonction de Ve, il va donc falloir « éliminer » Va, à présent.Cela peut se faire très simplement, en exprimant Va en fonction de Vs. Ainsi, en réinjectant cela dans l’équation précédente, nous pourrons alors faire disparaître Va, et laisser « que du Vs » en fonction de Ve. Pour ce faire, nous allons à présent appliquer la formule du pont diviseur de tension, en sortie (en prenant uniquement en compte la résistance et le condensateur tout à droite du schéma, donc). Car cela permet d’obtenir la « fameuse » équation Va en fonction de Vs, qui nous manque :` V_(S) = frac(Z_(C))(Z_(R) + Z_(C)) * V_(A)` d’où `V_(S) = frac(frac(1)(jC\omega))(R +frac(1)(jC\omega)) * V_(A) ` d’où `V_(S) = frac(jC\omega)(jC\omega) * frac(frac(1)(jC\omega))(R +frac(1)(jC\omega)) * V_(A)` d’où ` class{cmjx-highlight} { V_(S) = frac(1)(1 + jRC\omega) * V_(A)} `Du coup, en fusionnant ce dernier résultat avec l’expression du théorème de Millman trouvée un peu plus haut (donnant Va en fonction de Ve et Vs), nous obtenons :` V_(S) = (frac(1)(1 + jRC\omega)) * V_(A)` d’où ` V_(S) = (frac(1)(1 + jRC\omega)) * (frac(Ve + Vs)(2 + jRC\omega))` d’où ` V_(S) = frac(Ve + Vs)(2 + jRC\omega + 2jRC\omega + (jRC\omega)²)` d’où ` V_(S) = frac(Ve + Vs)(2 + 3jRC\omega + (jRC\omega)²)` d’où ` V_(S) * (2 + 3jRC\omega + (jRC\omega)²) = Ve + Vs` d’où ` V_(S) * (2 + 3jRC\omega + (jRC\omega)² – 1) = Ve ` d’où ` V_(S) * (1 + 3jRC\omega + (jRC\omega)²) = Ve ` d’où ` class{cmjx-highlight} { V_(S) = frac(Ve)(1 + 3jRC\omega + (jRC\omega)²) }`On peut du coup en déduire la fonction de transfert de ce filtre (H), correspondant à Vs / Ve : `class{cmjx-highlight} { H = frac(1)(1 + 3jRC\omega + (jRC\omega)²) }`On remarque ainsi qu’il s’agit bel et bien ici d’un filtre passe bas du 2ème ordre, avec pour fréquence propre ` f_(0) = frac(1)(2\piRC) `. wuzibivuvepo.pdf
Comme quoi, le théorème de Millman est vraiment utilisable dans bon nombre d’endroits, ce qui en fait un outil tout particulièrement de choix, pour nous, électroniciens !Voilà ! Je pense que nous avons fait le tour des bases à connaître au sujet du théorème de Millman, au travers de nombreux exemples concrets.Perso, je vous encourage à vraiment connaître « par coeur » ce théorème, car il vous sera particulièrement utile en électronique. En fait, c’est le genre d’outil mathématique qui fait gagner énormément de temps ! Alors autant ne pas s’en priver ☺Du reste, j’espère en tout cas que tout ce contenu vous servira au maximum, le jour où vous en aurez besoin ! Bien évidemment, tout n’a pas été abordé ici, et bon nombre de choses ont été simplifiées « au passage », afin d’en faire faciliter la compréhension. Mais je pense que l’essentiel y est ! Voili voilou !À bientôt.Jérôme.À découvrir aussi : tout un ensemble de bases à connaître en électronique !(*) Mis à jour le 08/12/2021 Exercices d'Électrocinétique ? Intensité et densité de courant E1 § ¦ ¤ ¥ Ex-E1 1 Vitesse des porteurs de charges : On dissout une masse m = 20g de EXERCICES CORRIGÉS 3-1 On observe la tension aux bornes d'un condensateur de capacité C = 2 µF sur l'écran d'un oscilloscope C'est une sinusoïde d'ampli- Exercices –Électrocinétique ? Calculs de tensions et de courants E2 Ex-E2 1 Réseau `a deux mailles Déterminer pour le circuit ci-contre l'intensité SERIE D'EXERCICES N° 1 : ELECTROCINETIQUE : CIRCUITS LINEAIRES EN REGIME PERMANENT CONTINU Diviseur de tension Exercice 1 1 Calculer les tensions U1 et Exercice 1 : Un générateur de force électromotrice E est utilisé pour charger une batterie de force contre électromotrice à travers une résistance R I Électromagnétisme MPSI I Électrocinétique MPSI I Optique MPSI-PCSI-PTSI I Thermodynamique MPSI Chimie 1re année I Chimie MPSI Exercices 1re année savoir-faire pour résoudre avec succès n'importe quel problème d'électrocinétique Tous les exercices et problèmes sont entièrement corrigés la résolution SERIE D'EXERCICES N° 1 : ELECTROCINETIQUE : CIRCUITS LINEAIRES EN REGIME PERMANENT CONTINU Diviseur de tension Exercice 1 1 Calculer les tensions U1 et Télécharger Examens et Exercices Corrigés Electrostatique et Electrocinétique PDF TD Devoir Contrôle Bachelor/Licence Physique Chimie L1 S2 Les exercices que je signale doivent être cherchés avant le TD Pour profiter des séances de TD il faut avoir vu ses difficultés par rapport `a l'exercice Exercices d'Électrocinétique.

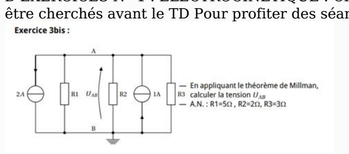

? Intensité et densité de courant. E1. §. ¦. ¤. ¥. Ex-E1.1 Vitesse des porteurs de charges :. SERIE D'EXERCICES N° 1 : ELECTROCINETIQUE : CIRCUITS LINEAIRES EN REGIME PERMANENT CONTINU. Diviseur de tension. Exercice 1. 1. Calculer les tensions U1 et Exercices –Électrocinétique. ? Calculs de tensions et de courants. E2. Ex-E2.1 Réseau `a deux mailles. Déterminer pour le circuit ci-contre EXERCICES CORRIGÉS. 3-1 On observe la tension aux bornes d'un condensateur de capacité. C = 2 µF sur l'écran d'un oscilloscope. C'est une sinusoïde d'ampli-. FACULTÉ DES SCIENCES. DÉPARTEMENT DE PHYSIQUE. SMIA 2019-2020. Électricité. Série de TD N° 3. Corrigé de la série d'électrocinétique. Exercice 1 :.
Ex-E4.3 Circuit d'ordre 1 (2). Dans le circuit représenté ci-contre on ferme l'interrup- teur K `a la date t = 0 le condensateur étant initialement. quantos litros de sangue tem um porc Certains exercices sont accompagnés de courtes indications comme en colle : il suffit parfois d'un petit « déclic » pour démarrer ! Il nous est apparu savoir-faire pour résoudre avec succès n'importe quel problème d'électrocinétique. Tous les exercices et problèmes sont entièrement corrigés la résolution Les exercices que je signale doivent être cherchés avant le TD. Pour profiter des séances de TD il faut avoir vu ses difficultés par rapport `a l'exercice et Série d'exercices 4. 1. SERIE D'EXERCICES N° 4 : ELECTROCINETIQUE : RÉSEAUX LINEAIRES EN REGIME Exercice 2 : diviseur de tension sans effet de filtrage. : Théorème de Thévenin. Théorème de Thévenin : On peut remplacer tout circuit linéaire, qui alimente par les bornes A et B un dipôle D, par un générateur de tension idéal en série avec une résistance Rt.. La fem Et du générateur est égale à la ddp mesurée entre A et B quand le dipôle D est débranché. Page 2 PDFprof.com Search Engine Report CopyRight Search conjugaison japonaise tableaucours japonais gratuit pdfverbes japonais pdfle japonais tout de suite pdf(pdf) vocabulaire japonaisdictionnaire japonais pdf40 leçons pour parler japonais pdfle japonais pour les nuls pdf gratuit fiche vocabulaire japonais pdfverbes japonais pdfle japonais tout de suite pdfvocabulaire japonais courantvocabulaire japonais par themeconjugaison japonaise pdf100 fiches de vocabulaire japonais pdfverbes japonais tableau Politique de confidentialité -Privacy policy