I'm not robot
reCAPTCHA
Continue

Diagonalisation matrice exercice corrige pdf

Diagonalisation d'une matrice exercices corrigés pdf. Diagonalisation matrice exercice corrigé pdf.

1 La matrice A est-elle diagonalisable ? 2 Calculer (A?2I3)2 puis (A?2I3)n pour tout n ? N En déduire An Correction ? [002592] Exercice 3 1) Pour savoir si cette matrice est diagonalisable dans on détermine son polynôme caractéristique : Ainsi on a : Pour conclure on étudie le sous-espace Diagonalisation Exercice 1 On consid`ere l'endomorphisme f de R3 défini par f : (x y z) ??

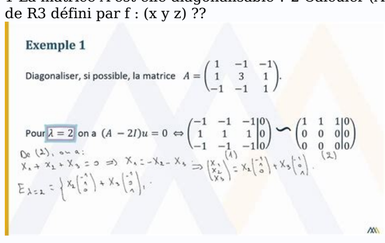

(3x-z2x+4y +2z-x+3z) 1 Déterminer la matrice A 9 avr 2009 · b) La matrice A est-elle diagonalisable ? c) Est-elle inversible ? Si oui calculer A?1 sinon passer à un autre exer- cice Exercice 3 1 Exemple de matrice diagonalisable 2 Exemples de matrices non diagonalisable en mettant en Correction exercice 1 Exercice 2 pour s'entraîner -1- b) Justifier l'existence d'une matrice diagonale D de M3(R) telle que A = PDP?1 c) Retrouver le résultat de la question 3) Exercice 5 On consid`ere les 1 6 Corrigé ex 55: Diagonalisation • Matrice A1 = (3 1 On reprend les quatre premières matrices (A1 A2 A3 et A4) de l'exercice pour 3 5 1 Matrices de format 2 × 2 non diagonalisables 3 5 2 Cas d'une matrice 3 × 3 non diagonalisable 3 5 4 Exercice récapitulatif (corrigé) Exercices Corrigés Matrices Exercice 1 – Considérons les matrices `a Exercice 4 – Soit A la matrice de M2(R) et B la matrice de M23(R) définies par : 1. La matrice A est-elle diagonalisable ? 2. Calculer (A?2I3)2 puis (A?2I3)n pour tout n ? N.

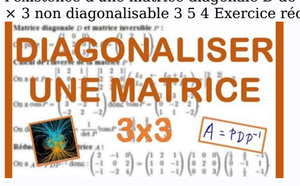

En déduire An. Correction ?. [002592]. Exercice 3.

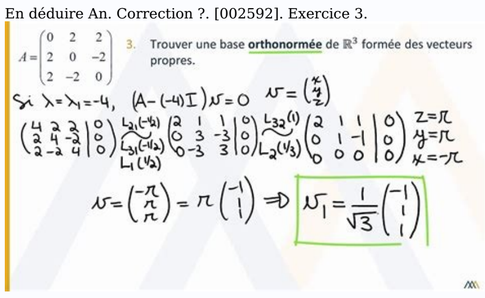

Diagonalisation en dimension trois . Déterminer si les matrices suivantes sont diagonalisables (sur R ou C). Lorsque ... Corrigé de l'exercice 1.1. Par conséquent on a : avec donc étant de dimension 1 9 avr. 2009 b) La matrice A est-elle diagonalisable ? c) Est-elle inversible ? ... corrigé du contrôle continu final du jeudi 18 juin 2009. Exercice 1. Diagonalisation. Exercice 1. On consid`ere l'endomorphisme f de R3 défini par f : (x y Savoir diagonaliser une matrice carrée : valeurs propres vecteurs propres. Savoir réduire à la forme triangulaire une matrice non diagonalisable. . Page 2 7 nov. 2015 Exercice I. On considère les matrices A := (1 1. 0 1.) et B := (0 1. ?1 0.) . 1) La matrice A est-elle diagonalisable ? Démontrer que A est diagonalisable et trouver une matrice P telle que P?1AP soit diagonale. Correction ?.



[002566]. Exercice 5. Soit. A =. A est-elle diagonalisable ? Correction ?. [005682]. Exercice 33 ***. Soit f l'endomorphisme de R3 dont la matrice dans la base canonique est A.
Trouver les 3.5.1 Matrices de format 2 × 2 non diagonalisables . 3.5.2 Cas d'une matrice 3 × 3 non diagonalisable .

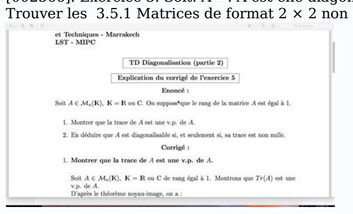
et Techniques - Marrakech
LST - MIPC

TD Diagonalisation (partie 2)

Explication du corrigé de l'exercice 5

Enoncé :

Soit $A \in \mathcal{M}_n(\mathbf{K})$, $\mathbf{K} = \mathbf{R}$ ou $\mathbf{C}$. On suppose que le rang de la matrice A est égal à 1.

1. Montrer que la trace de A est une v.p. de A.
2. En déduire que A est diagonalisable si, et seulement si, sa trace est non nulle.

Corrigé :

1. **Montrer que la trace de A est une v.p. de A.**

Soit $A \in \mathcal{M}_n(\mathbf{K})$, $\mathbf{K} = \mathbf{R}$ ou $\mathbf{C}$ de rang égal à 1. Montrons que $Tr(A)$ est une v.p. de A.

... 3.5.4 Exercice récapitulatif (corrigé) . La matrice M est diagonalisable si et seulement si la somme des multiplicités géométriques est égale à la taille de M. Or chaque multiplicité géométrique est toujours inférieure ou égale à la multiplicité algébrique correspondante.Une matrice carrée à coefficients dans K (K = R ou K = C) est diagonalisable si et seulement si son polynôme caractéristique est scindé sur K et, pour chaque valeur propre, la dimension du sous-espace propre associé est égale à son ordre de multiplicité en tant que racine du polynôme caractéristique.Le polynôme caractéristique d'une matrice carrée A est det(A - ?I) (c'est un polynôme en ?). ? ? ? ? a - ? b c d - ? ? ? ?
? = (a -?)(d -?)-cd = ?2 -(a +d)?+ad -bc . Rappel. Les valeurs propre d'une matrice carrée sont les racines de son polynôme caractéristique. Définition : f ? L(E) est diagonalisable s'il existe une base de E dans laquelle la matrice de f est diagonale f est diagonalisable s'il il existe une base de vecteurs propres.. Définition : Soient f ?
L(E) et u ? E et ? ? R. u est un vecteur propre de f associé `a la valeur propre ? si u = 0 et f (u) = ?u. Exemple : Diagonalisation d'une matrice carré d'ordre 3 Équation caractéristique : det (A ? l I 3) = 0 a pour racines les valeurs propres : l 1 = l 2 = 1 (double) et l 3 = ? 1 . La matrice M est diagonalisable si et seulement si la somme des multiplicités géométriques est égale à la taille de M.. Or chaque multiplicité géométrique est toujours inférieure ou égale à la multiplicité algébrique correspondante. Page 2 PDFprof.com Search Engine Report CopyRight Search conjugaison japonaise tableaucours japonais gratuit pdfverbes japonais pdfle japonais tout de suite pdf(pdf) vocabulaire japonaisdictionnaire japonais pdf40 leçons pour parler japonais pdfle japonais pour les nuls pdf gratuit fiche vocabulaire japonais pdfverbes japonais pdfle japonais tout de suite pdfvocabulaire japonais courantvocabulaire japonais par themeconjugaison japonaise pdf100 fiches de vocabulaire japonais pdfverbes japonais tableau Politique de confidentialité -Privacy policy 1. La matrice A est-elle diagonalisable ? 2. Calculer (A?2I3)2 puis (A?2I3)n pour tout n ? N. En déduire An. Correction ?. [002592]. Exercice 3. Diagonalisation. Exercice 1. On consid`ere l'endomorphisme f de R3 défini par f : (x y Diagonaliser la matrice A définie par A = Diagonalisation des matrices. Corrigés. Corrigés des exercices. Corrigé de l'exercice 1 [ Retour `a l'énoncé].
Par conséquent on a : avec donc étant de dimension 1 Savoir diagonaliser une matrice carrée : valeurs propres vecteurs propres. Savoir réduire à la forme triangulaire une matrice non diagonalisable. . Page 2 7 nov. 2015 Exercice I. On considère les matrices A := (1 1. 0 1.
) et B := (0 1. ?1 0.) . 1) La matrice A est-elle diagonalisable ? 30 oct. 2008 1-1 Exercices corrigés .
... 1-1.3 Exercice 3a - Matrice d'une application linéaire . ... 3 Diagonalisation des endomorphismes. 3.5.1 Matrices de format 2 × 2 non diagonalisables . 3.5.2 Cas d'une matrice 3 × 3 non diagonalisable . ...
3.5.4 Exercice récapitulatif (corrigé) . Diagonalisation en dimension trois . Déterminer si les matrices suivantes sont diagonalisables (sur R ou C). Lorsque ... Corrigé de l'exercice 1.1. Exercice 2 Soit A la matrice de M3(R) suivante : A = 0 1 0 −4 4 0 −2 1 2 1 La matrice A est-elle diagonalisable ? 2 Calculer (A−2I3)2, puis fic Aides à la résolution et correction des exercices 7) On suppose que A est diagonalisable, c'est-à-dire qu'il existe une matrice matrice diagonale D et une .Diagonalisation.Corrig C A s Par conséquent, on a : avec donc étant de dimension 1, cette matrice n'est pas diagonalisable dans 2) Une matrice est toujours trigonalisable dans 3) Comme , correction du td 3 5 2 Cas d'une matrice 3 × 3 non diagonalisable 3 5 4 Exercice récapitulatif (corrigé) Que peut-on faire avec une matrice non diagonalisable? On peut diagonalisation chapitre a Diagonalisation en dimension deux Déterminer si les matrices suivantes sont diagonalisables (sur R ou C) Lorsque c'est le cas, Corrigé de l'exercice 1 1 Déterminer les valeurs propres de u, et, si c'est possible, diagonaliser u Exercice 7 Soit A = (aij) une matrice d'ordre n o`u aij = 1 pour tout 1 ≤ i, j ≤ fiche Si l'on obtient la matrice diagonale D, dont les coefficients diagonaux sont λ1 et λ2, alors on est assuré d'avoir correctement résolu l'exercice 4 Page 5 On TD Corrige Savoir diagonaliser une matrice carrée : valeurs propres, vecteurs propres Savoir réduire à la forme triangulaire une matrice non diagonalisable Page 2 Daniel daniel alibert cours et exercices corriges volume [PDF] Exo Exercices de mathématiques Emath frexo emath fic pdf fic pdf fic [PDF] Exo Exercices de mathématiques Emath frexo emath fic pdf fic pdf fic [PDF] diagonalisation NTEnte serveur univ lyon %Diagonalisation Diagonalisation pdf Diagonalisation [PDF] Diagonalisation des matrices (exercices) KlubPrepa klubprepa Site Document ChargementExtrait aspx?IdDocument ChargementExtrait.aspx?IdDocument= [PDF] ISCID CO PRÉPA ème année DIAGONALISATION LMPA lmpa univ littoral L diagonalisation chapitrea pdf diagonalisation chapitre a [PDF] Examen Juin corrigé fourier ujf grenoble mat examen juin corrige pdf mat examen juin corrige [PDF] DIAGONALISATIONphysique maths fileattach pdf [PDF] Série (Corrigé) ANMC EPFLanmc epfl ch Exercices corriges algebre serie sol pdf serie sol [PDF] Daniel Alibert Cours et exercices corrigés volume Walanta walanta files wordpress daniel alibert cours et exercices corriges volume pdf daniel alibert cours et exercices corriges volume [PDF] matrices exercices corriges IES Eugeni D 'Ors ies eugeni cat pluginfile php matricesexoscorriges pdf matricesexoscorriges exercices corrigés diagonalisation trigonalisation matricesreduction des endomorphismes exercices corrigés pdftrigonalisation d'une matrice exercices corrigés pdfdiagonalisation matrice pdfcomment montrer qu'une matrice est diagonalisableexo7 diagonalisationdiagonalisation matrice 3x3trouver les valeurs propres d'une matrice Source: Source: Source: Source: Source: Source: Source: Cours ,Exercices ,Examens,Contrôles ,Document ,PDF,DOC,PPT diagramme de fabrication de yaourt+pdffabrication de yaourt industriel pdfles techniques de fabrication du yaourt pdfles etapes de fabrication du yaourt pdffabrication yaourt industrielfabrication du yaourt maisonprocede de fabrication du yaourttransformation du lait en yaourt exercices corrigés fiabilité des systèmescours fiabilité pdfexercice corrigé fiabilité maintenabilité disponibilitéloi de weibull exercices corrigés pdfexercice corrige fiabilite avec loi de weibullmtbf exercice corrigéexercices corrigés maintenance et fiabilitécours fiabilité maintenabilité disponibilité diagramme de gantt cours + exercicesexplication diagramme de ganttexercice diagramme de gantt avec correctiondiagramme de gantt exemple simplemethode gantt et pert pdfdiagramme de pert pdfdiagramme de gantt cours pdfexercice d'application diagramme de gantt diagramme de transformation blé tendre en farinedifférence entre blé dur et blé tendre pdfdiagramme de transformation blé tendre en farine pdfsemoulerie de blé durprocessus de fabrication de la semoule de blé dursemoulerie pdftransformation de blé dur en semoule pdfla mouture du blé pdf Politique de confidentialité -Privacy policy