I'm not robot
reCAPTCHA
I am not robot!

Exercices corrigés translation et rotation 4ème

Avez-vous d'autres questions sur ce cours? Définissez la discussion et concentrez-vous sur les tâches pratiques. Traduction et rotation dans le 4ème cours mathématique du 4ème cycle. Nous serons toutes ces deux transformations de conservation de la mesure de la course, de la longueur, de la zone, de l'environnement et de l'angle dans cet appât, qui est environ la quatrième place. Si nous poussons la pièce sans la tourner de la main comme cela s'est produit en B, la pièce sera positionnée au-dessus. Une figure est censée être l'image de la figure au moyen d'une traduction qui devient B. L'image du point M à travers une traduction qui devient B est le même environnement. Si les points ne sont pas alignés, ABMâ est parallèle. La représentation d'un segment par traduction est un segment parallèle et de longueur égale. Exemple: Dans une traduction qui transforme A B en B, le segment [Mn] est représenté par le segment [M Â]. Par conséquent, les segments [Mn] et [Mâ n sont parallèles et de longueur égale. Ii Complétez la rotation en faisant tourner la figure en point ou, l'angle de mesure, dans le sens antihoraire. Il est superposé à une image. Une figure est une représentation d'une figure en tournant le centre O. et le coin. Remarque: Dans toute cette section, le sens de la rotation sera toujours trigonométrique (anti-errellement). La rotation du centre O et de l'angle de 180 ° est le symbole central du centre ou 2. Vue du point approprié: nous considérons O et M comme deux points différents. L'image du point M en tournant le centre O et l'angle est le point m tel que: e. Iii. La propriété de traduction et les rotations de torsion et de traduction sont maintenues à une longueur qui aligne les alignementsB " D'autres questions sur ce cours ? Démarrer une discussion et obtenir des réponses \ xc3 \ xa0 exercices pratiques. Traduction et rotation dans un cours de mathématiques en 4e 4e à partir du comportement équivalent l \ xe2 \ x80, longueurs, aires, diamètres et voir voir Dans cette leçon, jusqu'en CM2. Déplaçons le personnage sans l'augmenter pour atteindre B, on pense au personnage. point m\x80\x99 quels épisodes [mb] et [am\xe2\x80\x99] ou m \ xc3 \ xaame comme point médian.

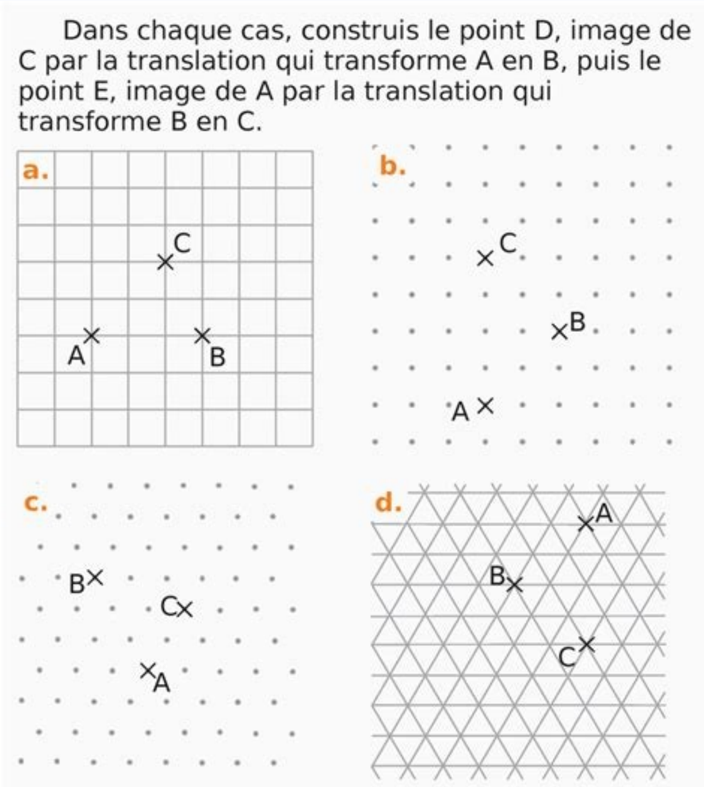

Une figure est censée être l'image de la figure au moyen d'une traduction qui devient B. L'image du point M à travers une traduction qui devient B est le même environnement. Si les points ne sont pas alignés, ABMâ est parallèle. La représentation d'un segment par traduction est un segment parallèle et de longueur égale. Exemple: Dans une traduction qui transforme A B en B, le segment [Mn] est représenté par le segment [M Â]. Par conséquent, les segments [Mn] et [Mâ n sont parallèles et de longueur égale.

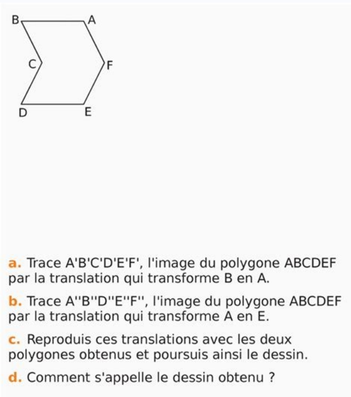

Une figure est censée être l'image de la figure au moyen d'une traduction qui devient B. L'image du point M à travers une traduction qui devient B est le même environnement. Si les points ne sont pas alignés, ABMâ est parallèle. La représentation d'un segment par traduction est un segment parallèle et de longueur égale. Exemple: Dans une traduction qui transforme A B en B, le segment [Mn] est représenté par le segment [M Â]. Par conséquent, les segments [Mn] et [Mâ n sont parallèles et de longueur égale. Ii Complétez la rotation en faisant tourner la figure en point ou, l'angle de mesure, dans le sens antihoraire. Il est superposé à une image. Une figure est une représentation d'une figure en tournant le centre O. et le coin. Remarque: Dans toute cette section, le sens de la rotation sera toujours trigonométrique (anti-errellement). La rotation du centre O et de l'angle de 180 ° est le symbole central du centre ou 2. Vue du point approprié: nous considérons O et M comme deux points différents. L'image du point M en tournant le centre O et l'angle est le point m tel que: e. Iii. La propriété de traduction et les rotations de torsion et de traduction sont maintenues à une longueur qui aligne les alignementsB " D'autres questions sur ce cours ? Démarrer une discussion et obtenir des réponses \ xc3 \ xa0 exercices pratiques. Traduction et rotation dans un cours de mathématiques en 4e 4e à partir du comportement équivalent l \ xe2 \ x80, longueurs, aires, diamètres et voir voir Dans cette leçon, jusqu'en CM2. Déplaçons le personnage sans l'augmenter pour atteindre B, on pense au personnage. point m\x80\x99 quels épisodes [mb] et [am\xe2\x80\x99] ou m \ xc3 \ xaame comme point médian. \ x99m est un segment parallèle. Pour une traduction, un segment parallèle est et exemple : dans une traduction qui change le segment A B, le segment [Mn] [Mn] est l'image comme le segment [m\xe2\x80\x99n\x8\\x8\\x8\\x8\x80\x99]. Par conséquent, les épisodes [mn] et [m\xe2\x80\x99n\xe2\x80\x99] sont parallèles \ xc3 \ xa8l et ont une longueur de m \ xc3 \ xaame. Ii. La définition de la rotation lors de la rotation d'une figure autour d'un point dans la direction opposée pour déplacer les aiguilles de l'horloge correspond à la figure. La figure est dite être l'image de la figure, l'agent tournant et l'angle.Remarque : Dans cette section, le sens de rotation sera toujours trigonométrique (le sens opposé au mouvement des aiguilles de l'horloge). Agent de rotation o i d \ xe2 \ x80 \ x99C'est pourquoi ils ont le même événement. Essayez d'imprimer ce document Imprimer PDF gratuitement: Vous avez la possibilité de décorer et d'imprimer ce document en traduction et tournant gratuits: 4 ans | Quatrième. »Format PDF. Matovor a 13 795 114 cours et exercices de mathématiques avec PDF. 2021-07-11 ********** **** **** ********** ********** ****** ********** ********** ********** ********** ********** ********** ****** ********** ********** ********** ****** *** *** ****** ****** ** Traductions ********** Je ne change pas votre attitude différemment. Si la figure est traduite, chacun des sommets (coins) doit être supprimé de la même manière. En plaçant un morceau de papier sur la table et en plaçant le stylo au centre, vous pouvez faire pivoter le papier et garder le stylo en position fixe. Le poêle agit comme un centre de rotation et vous pouvez transformer l'objet de 0 ° à 360 °. L'évaluation et la traduction du cours et le 4e PDF gratuit imprimé. P. Le quatrième (4e) exercice interactif avec une correction fixe, des cours et des jeux mathématiques peuvent être restaurés des centaines de fois dans des tâches mathématiques sans trouver la même chose. Informations, si votre échéance est autorisée, vous pouvez convoquer des recommandations pour l'exercice dans la partie approximative des dépenses. Sinon, selon l'exercice offert, et sinon, prenez un morceau de papier et un crayon aigre.

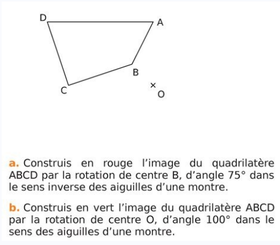

L'image du point M à travers une traduction qui devient B est le même environnement. Si les points ne sont pas alignés, ABMâ est parallèle. La représentation d'un segment par traduction est un segment parallèle et de longueur égale.

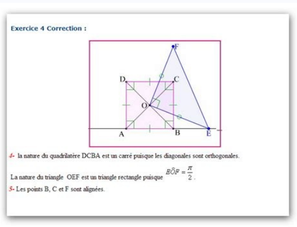

Nous serons toutes ces deux transformations de conservation de la mesure de la course, de la longueur, de la zone, de l'environnement et de l'angle dans cet appât, qui est environ la quatrième place. Si nous poussons la pièce sans la tourner de la main comme cela s'est produit en B, la pièce sera positionnée au-dessus. Une figure est censée être l'image de la figure au moyen d'une traduction qui devient B. L'image du point M à travers une traduction qui devient B est le même environnement. Si les points ne sont pas alignés, ABMâ est parallèle. La représentation d'un segment par traduction est un segment parallèle et de longueur égale. Exemple: Dans une traduction qui transforme A B en B, le segment [Mn] est représenté par le segment [M Â]. Par conséquent, les segments [Mn] et [Mâ n sont parallèles et de longueur égale. Ii Complétez la rotation en faisant tourner la figure en point ou, l'angle de mesure, dans le sens antihoraire. Il est superposé à une image. Une figure est une représentation d'une figure en tournant le centre O. et le coin. Remarque: Dans toute cette section, le sens de la rotation sera toujours trigonométrique (anti-errellement). La rotation du centre O et de l'angle de 180 ° est le symbole central du centre ou 2. Vue du point approprié: nous considérons O et M comme deux points différents. L'image du point M en tournant le centre O et l'angle est le point m tel que: e. Iii. La propriété de traduction et les rotations de torsion et de traduction sont maintenues à une longueur qui aligne les alignementsB " D'autres questions sur ce cours ? Démarrer une discussion et obtenir des réponses \ xc3 \ xa0 exercices pratiques. Traduction et rotation dans un cours de mathématiques en 4e 4e à partir du comportement équivalent l \ xe2 \ x80, longueurs, aires, diamètres et voir voir Dans cette leçon, jusqu'en CM2. Déplaçons le personnage sans l'augmenter pour atteindre B, on pense au personnage.
point m\x80\x99 quels épisodes [mb] et [am\xe2\x80\x99] ou m \ xc3 \ xaame comme point médian. \ x99m est un segment parallèle. Pour une traduction, un segment parallèle est et exemple : dans une traduction qui change le segment A B, le segment [Mn] [Mn] est l'image comme le segment [m\xe2\x80\x99n\x8\\x8\\x8\\x8\x80\x99]. Par conséquent, les épisodes [mn] et [m\xe2\x80\x99n\xe2\x80\x99] sont parallèles \ xc3 \ xa8l et ont une longueur de m \ xc3 \ xaame. Ii. La définition de la rotation lors de la rotation d'une figure autour d'un point dans la direction opposée pour déplacer les aiguilles de l'horloge correspond à la figure. La figure est dite être l'image de la figure, l'agent tournant et l'angle.Remarque : Dans cette section, le sens de rotation sera toujours trigonométrique (le sens opposé au mouvement des aiguilles de l'horloge). Agent de rotation o i d \ xe2 \ x80 \ x99C'est pourquoi ils ont le même événement. Essayez d'imprimer ce document Imprimer PDF gratuitement: Vous avez la possibilité de décorer et d'imprimer ce document en traduction et tournant gratuits: 4 ans | Quatrième. »Format PDF. Matovor a 13 795 114 cours et exercices de mathématiques avec PDF. 2021-07-11 ********** **** **** ********** ********** ****** ********** ********** ********** ********** ********** ********** ****** ********** ********** ********** ****** *** *** ****** ****** ** Traductions ********** Je ne change pas votre attitude différemment. Si la figure est traduite, chacun des sommets (coins) doit être supprimé de la même manière. En plaçant un morceau de papier sur la table et en plaçant le stylo au centre, vous pouvez faire pivoter le papier et garder le stylo en position fixe. Le poêle agit comme un centre de rotation et vous pouvez transformer l'objet de 0 ° à 360 °. L'évaluation et la traduction du cours et le 4e PDF gratuit imprimé. P. Le quatrième (4e) exercice interactif avec une correction fixe, des cours et des jeux mathématiques peuvent être restaurés des centaines de fois dans des tâches mathématiques sans trouver la même chose. Informations, si votre échéance est autorisée, vous pouvez convoquer des recommandations pour l'exercice dans la partie approximative des dépenses. Sinon, selon l'exercice offert, et sinon, prenez un morceau de papier et un crayon aigre. (Par exemple, calculs) Tous les exercices corrects interactifs 6. sont gratuits. Seulement 3, 4 et 5.\(ABC\) après une rotation moyenne \(o\) dans un coin \(270°\) dans le sens inverse des aiguilles d'une montre. {"Init": {"Plage": [-1.0, 5.0], [-3.309401076758503, 3.309401076758503], "Échelle": [40, 40], "Chemin": [[4.0, 0.0], [0.0], [0,0], [0,0], [0,0], [0,0], [0,0].

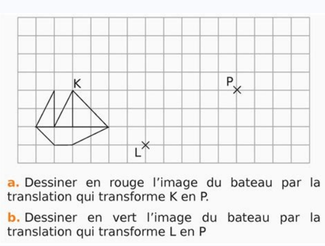

Si nous poussons la pièce sans la tourner de la main comme cela s'est produit en B, la pièce sera positionnée au-dessus.
Une figure est censée être l'image de la figure au moyen d'une traduction qui devient B. L'image du point M à travers une traduction qui devient B est le même environnement. Si les points ne sont pas alignés, ABMâ est parallèle. La représentation d'un segment par traduction est un segment parallèle et de longueur égale. Exemple: Dans une traduction qui transforme A B en B, le segment [Mn] est représenté par le segment [M Â]. Par conséquent, les segments [Mn] et [Mâ n sont parallèles et de longueur égale. Ii Complétez la rotation en faisant tourner la figure en point ou, l'angle de mesure, dans le sens antihoraire. Il est superposé à une image. Une figure est une représentation d'une figure en tournant le centre O. et le coin. Remarque: Dans toute cette section, le sens de la rotation sera toujours trigonométrique (anti-errellement). La rotation du centre O et de l'angle de 180 ° est le symbole central du centre ou 2. Vue du point approprié: nous considérons O et M comme deux points différents. L'image du point M en tournant le

centre O et l'angle est le point m tel que: e. Iii. La propriété de traduction et les rotations de torsion et de traduction sont maintenues à une longueur qui aligne les alignementsB " D'autres questions sur ce cours ? Démarrer une discussion et obtenir des réponses \ xc3 \ xa0 exercices pratiques. Traduction et rotation dans un cours de mathématiques en 4e 4e à partir du comportement équivalent l \ xe2 \ x80, longueurs, aires, diamètres et voir voir Dans cette leçon, jusqu'en CM2. Déplaçons le personnage sans l'augmenter pour atteindre B, on pense au personnage. point m\x80\x99 quels épisodes [mb] et [am\xe2\x80\x99] ou m \ xc3 \ xaame comme point médian.
\ x99m est un segment parallèle. Pour une traduction, un segment parallèle est et exemple : dans une traduction qui change le segment A B, le segment [Mn] [Mn] est l'image comme le segment [m\xe2\x80\x99n\x8\\x8\\x8\\x8\x80\x99]. Par conséquent, les épisodes [mn] et [m\xe2\x80\x99n\xe2\x80\x99] sont parallèles \ xc3 \ xa8l et ont une longueur de m \ xc3 \ xaame.
Ii. La définition de la rotation lors de la rotation d'une figure autour d'un point dans la direction opposée pour déplacer les aiguilles de l'horloge correspond à la figure. La figure est dite être l'image de la figure, l'agent tournant et l'angle.Remarque : Dans cette section, le sens de rotation sera toujours trigonométrique (le sens opposé au mouvement des aiguilles de l'horloge). Agent de rotation o i d \ xe2 \ x80 \ x99C'est pourquoi ils ont le même événement. Essayez d'imprimer ce document Imprimer PDF gratuitement: Vous avez la possibilité de décorer et d'imprimer ce document en traduction et tournant gratuits: 4 ans | Quatrième. »Format PDF. Matovor a 13 795 114 cours et exercices de mathématiques avec PDF. 2021-07-11 ********** **** **** ********** ********** ********** ****** ********** ********** ********